Vingt 20

19 + 1 = 20
10 + 10 = 20

2 dizaines

Je colorie et je complète

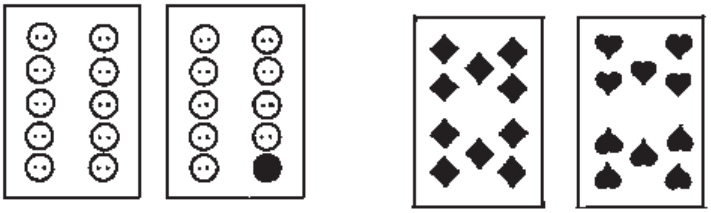

le double de 10 est .....
la moitié de 20 est .....

19 + 1 = ... dizaine + ... dizaine = ...
..... + ... = ...

J'écris

2 0 -

Je complète (commencer par les cases vides)

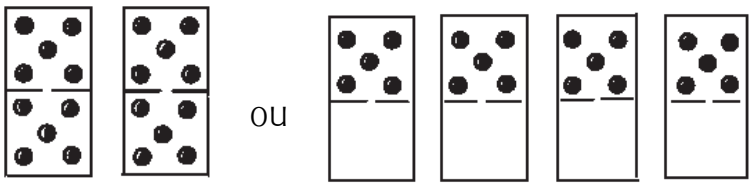

ou

15	10
+ 5	+ 10
.....	.....

2 fois ..... = ... 4 fois ..... = ... dizaines

J'écris de 5 en 5

5 - 1 0 - - - 5 - - - - 5 -

Je compte

18 + 2 = ...
17 + 3 = ...
16 + 4 = ...

Je compte

15 + ... = 20 14 + ... = 20 13 + ... = 20 12 + ... = 20

Je souligne celle qui a le plus

Marie a [10 €] [5 €] [5 €] ..... Jane a [5 €] [5 €] .....

Monique a [5 €] [5 €] [5 €] (2 €) .....

Je fais un problème

J'avais 12 billes, j'en gagne 8, j'en ai ..... + ... = ...

12
+ 8
.....

20 à 29

Je colorie et je complète

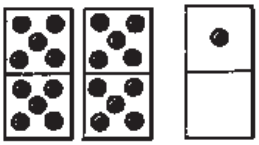

..... dizaines + ... unité.

20 + 1 = ...

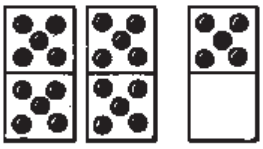

..... dizaines + ... unités = ...

20 + 5 = ...

	d	u
	2	0
+		1
	.....	

	d	u
	2	0
+		5
	.....	

J'écris de 20 à 29
(faire une croix sous les nombres pairs)

2 0 -

J'écris de 6 à 24
(de 2 en 2)

6 - 8 -

J'écris de 24 à 15
(faire une croix sous les nombres impairs)

2 4 - 2 3 -

Je possède

10 € 10 € 2 € 2 € = ...

10 € 5 € 5 € 5 € = ...

10 € 5 € 1 € = ...

Je compte

21 pipes	23 poires	29 bols	26 pots	10
+ 4 pipes	+ 6 poires	- 5 bols	- 3 pots	+ 10
.....	.....	.....	.....	.....

Je fais deux problèmes



La baguette magique de Merlin l'enchanteur allume 17 bougies.
7 s'éteignent. Il reste 17 ... . = ... bougies

17
... .
.....

Maman a 24 œufs. Elle en casse 3.
Il lui reste .... = ...

24
... .
.....

Trente 30

29 + 1 = 30 3 dizaines

Je compte

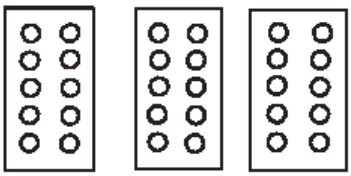

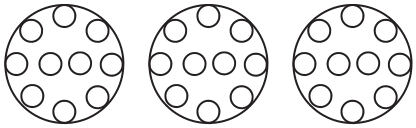

..... dizaines ou ..... 3 fois 10 = ...

J'écris

3 0 -

J'écris 30 à 0 (de 5 en 5)

3 0 -

Je compte

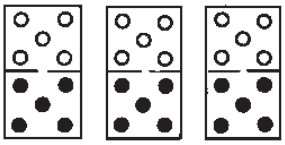

3 dizaines ou .....

6 fois 5 = ...
3 fois 5 = ...

Je marque la valeur sur les billets

☐ ☐ ☐ = 30 € ☐ ☐ = 30 €

Je complète



21 + 9 = ...

22 + 8 = ...

23 + ... = 30

J'additionne

24 + 6 = ... 25 + 5 = ... 26 + ... = 30
27 + ... = 30 28 + 2 = ...

Je fais un problème

J'ai 22 €, papa me donne 8 €. Combien ai-je en tout ?
J'ai en tout ..... = ...

30 à 39

Je colorie et je complète



30
+ 1
.....



30
+ 3
.....

30
+ 6
.....

..... dizaines + ... unité = ...

J'écris de 30 à 39

30 -

J'écris de 38 à 20 (de 2 en 2)

38 - 36 -

J'écris les nombres (de 0 à 39)

terminés par 3	terminés par 4	terminés par 6
3 - 13 -		

J'augmente les nombres de la ligne ci-dessus

j'ajoute 2	j'ajoute 4	j'ajoute 3
5 - 15 -		

Je paye (dessiner les pièces)

Je dois 32 €. Je donne [20 €] [10 €] [5 €] On me rend :

Je dois 36 €. Je donne [10 €] [10 €] [10 €] [5 €] il faut encore :

Je fais un problème

Jean a trouvé 31 escargots, France 7.
Ils les ont mis dans le même sac.
Dans le sac, il y a .... = ...

31
+ .....
.....

Je compte

d u	d u	d u	d u			
1 2	7	3	4	36	39	38
+ 1 9	+ 2 4	+ 3 3	+ 3 0	- 4	- 7	- 5
.....	.....	.....	.....	.....	.....	.....

Quarante 40

39 + 1 = 40

4 dizaines

20 + 20 = ...

2 fois 20 = ...

Je compte



..... dizaines ou ..... fois 10 = ...



le double de 20 est .....

la moitié de 40 est .....

J'écris

4 0 -

J'écris de 40 à 20
(de 2 en 2)

4 0 - 3 8 -

Je paye 40 € avec
(dessiner les billets)

des billets de 20 €

20 €

des billets de 10 €

des billets de 20 et 10 €

des billets de 5 € : 5 €

Je compte et je complète

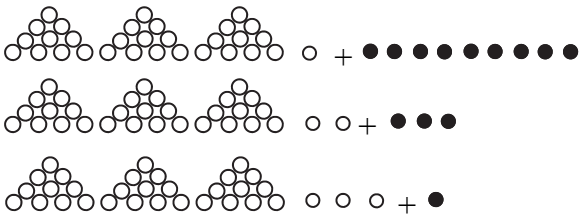

31 + 9 = ...

32 + ... = ...

33 + ... = ...

Je compte

34 + 6 = ...

35 + 5 = ...

36 + ... = 40

37 + ... = 40

38 + ... = 40

Je fais un problème

Paul cueille 34 cerises. Odile 6. Combien y a-t-il de cerises dans le panier ?

Dans le panier, il y a .... = ...

34

.....

.....

40 à 49

Je colorie et je complète

40
\+ 1
.....

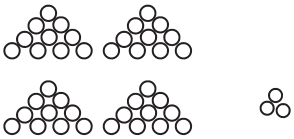

40
\+ 3
.....

..... dizaines + ... unité = ...

4 dizaines + 3 unités = ...

J'écris de 40 à 49
Souligner les nombres impairs

40 -

J'écris de 29 à 49
(de 2 en 2)

29 -

Je réfléchis

30 = ... dizaines 35 = 3 diz 5 u
40 = ... dizaines 45 = 4 diz 5 u

J'écris les nombres terminés par 5
(entre 0 et 49)

5 -

J'ajoute 2 à ces nombres

7 -

Je paye
(dessiner les billets ou pièces)

Je dois 33 €. Je donne [20 €] [10 €] [5 €] On me rend :
Je dois 47 €. Je donne [20 €] [10 €] [10 €] Je dois encore :

Je fais un problème

Dans le jardin, il y a 48 pieds de salades. J'en arrache 6. Combien en reste-t-il ?
Il reste : .... = ...

48
... .
.....

Je compte

d u	d u	d u				
1 3	4 2	6	4	48	47	45
+ 2 5	+	+ 4 1	+ 4 2	- 5	- 3	- 5
.....	4 9	.....	.....	.....	.....	.....